CONOCIENDO MI DEPARTAMENTO QUINDÍO

MARCELA ZULETA VARGAS
Licenciada en Ciencias Sociales, U. de Caldas
Especialista en Gerencia Educativa, U. Católica de Manizales

ACTIVIDAD INDIVIDUAL

Lea el siguiente texto. Luego responda la siguiente pregunta:

¿Cómo se vincula el Quindío con el mundo?

_____
_____
_____
_____
_____
_____
_____
_____
_____
_____
_____

GENERALIDADES DEL DEPARTAMENTO DEL QUINDIO

Yo vivo en el departamento del Quindío, llamado corazón verde de Colombia, mezcla perfectamente modernidad y tradición,desarrollo turístico y conciencia ambiental, cultura cafetera y calidez humana.

Gracias a la belleza de sus montañas y la cultura de su pueblo, Quindío ha logrado posicionarse ante Colombia y el Mundo como uno de los destinos predilectos para hacer turismo rural (Recuca, Fincas Cafeteras, etc.) turismo de aventura (Rafting, Canopy, Parapente, etc), turismo ecológico (avistamiento de aves, caminata ecológica, Jardín Botánico y Mariposarío, etc.) y turismo recreativo en sus parques temáticos (Parque Nacional del Café, El Parque Nacional de la Cultura Agropecuaria Panaca y El Parque la Arrieria).

El nombre o gentilicio que recibimos todos los que nacemos en el departamento del Quindío es “quindiano”.

UBICACIÓN DEL DEPARTAMENTO DEL QUINDIO

El Departamento del Quindío tiene una extensión de 1.845 Kilómetros, es considerado el departamento más pequeño de Colombia y está ubicado en la zona andina, en el centro-oeste de Colombia.

El Quindío es uno de los 32 departamentos en los cuales está dividida Colombia.

ACTIVIDAD INDIVIDUAL:

1. En el siguiente mapa ubique y coloree el departamento del Quindío.

LIMITES DEL QUINDIO

Quindío limita por el sur con Tolima y al Oeste con el Valle del Cauca y al Norte con Risaralda. Forma parte del Eje Cafetero y de la Región paisa.

ACTIVIDAD GRUPAL:

1. En el siguiente mapa ubique y coloree los departamentos que limitan con el Quindío.

2. Pinte el mapa del Quindío. Ubique y escriba los limites.

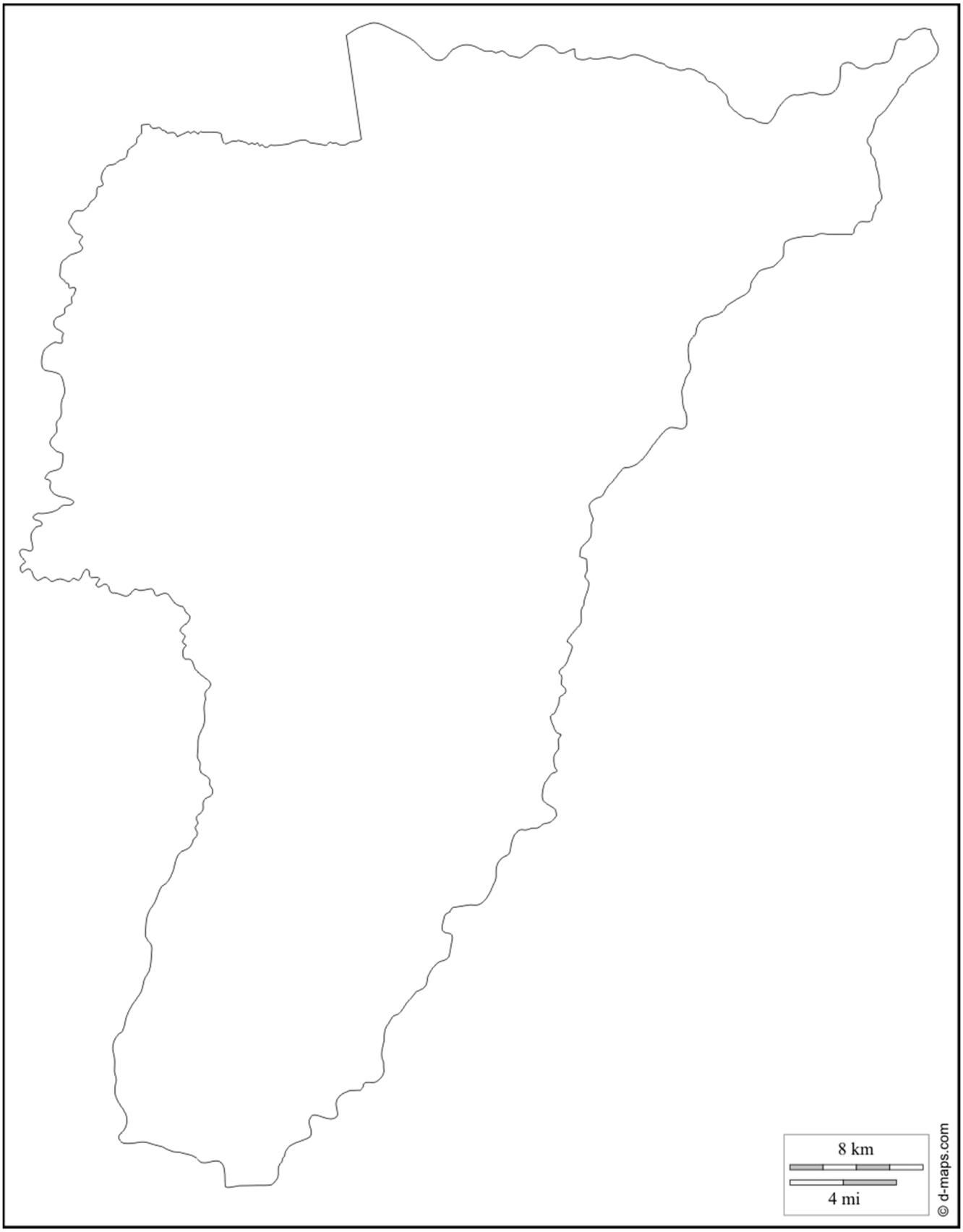

MUNICIPIOS DEL QUINDIO

El departamento del Quindío está dividido en 12 municipios La ciudad capital del Quindío es Armenia y sus demás municipios son :
Salento, Calarcá, Filandia, Circasia, Montenegro, Quimbaya, La Tebaida, Buenavista,
Pijao, Genova, Córdoba y Barcelona.

ACTIVIDAD EN GRUPO

1. Busque en esta sopa de letras los nombres de los Municipios del Quindío y enciérrelos en colores diferentes. Luego, ubique los municipios en el mapa

B	N	C	I	R	C	A	S	I	A	M	Z
B	A	R	C	E	L	O	N	A	G	A	S
M	U	D	F	S	G	H	R	J	E	K	L
O	Ñ	E	Q	W	A	E	R	D	N	T	F
N	Q	Y	N	U	I	L	O	P	O	A	I
T	C	U	S	A	D	F	E	G	V	V	L
E	A	H	I	R	V	P	J	N	A	K	A
N	L	Ñ	Z	M	X	I	C	V	T	L	D
E	A	B	N	E	B	J	S	M	X	O	I
G	R	Y	R	N	F	A	B	T	M	S	A
R	C	U	V	I	Ñ	O	Y	X	A	R	O
O	A	P	L	A	T	E	B	A	I	D	A

2. Ordena las letras y sabrás el nombre de los 13 municipios del departamento del Quindío. Ubíquelos en el mapa.

1. ASINBETUAV
2. ACLRACA
3. SRICIAAC
4. IALDANFI
5. EGONAV
6. AEOTNLS
7. NEETGRMONO
8. IBQYAAMU
9. EDABTALIA
10. JIPOA
11. DABORCO
12. REIAMAN
13. REBOACALN

3. Realice el siguiente apareamiento señalando con una flecha los municipios del Quindío con sus características principales.

BUENAVISTA	Delicioso pescado. Allí se ubica el Valle del Cocora, donde se puede observar la Palma Cera (árbol Nacional). Hace parte del Parque Nacional de los Nevados.
PIJAO	Su cementerio es famoso por su armonía y belleza.
CORDOBA	Allí se encuentra el Jardín Botánico y su fastuoso Mariposario. Se caracteriza por su desfile del “Yipao” y el Museo de la fotografía.
ARMENIA	Es admirado por sus famosos faroles navideños. Posee el gran Parque Agropecuario Panaca.
FILANDIA	Allí se ubica el hermoso valle de Maravélez y el aeropuerto el Edén.
MONTENEGRO	Pueblo que ilumina la cordillera por eso se le llama “Balcón de la Cordillera”. Posee hermosas cavernas.
SALENTO	Reconocido el Parque Nacional del Café.
GENOVA	Tiene una hermosa vista de paisajes naturales y culturales.
CIRCACIA	Se caracteriza por el museo de Guadua.
QUIMBAYA	Famoso por sus artesanías en sus canastos y por su mirador construido en guadua.
CALARCA	Pueblo que goza de su gente y de sus calles.
TEBAIDA	Capital del Quindío. Allí se encuentra el museo Quimbaya y Parque de la Vida.

4. Observe las siguientes imágenes. Escriba al frente a qué municipio del Quindío corresponde:

5. Ubique los municipios del Quindío en el mapa. Luego, en el mismo mapa, dibuje las principales características o principales atractivos turísticos de los municipios.

ACTIVIDAD GRUPAL

Realice la siguiente lectura mutilada sobre la geografía del Quindío y complete con sus propias palabras el texto:

GEOGRAFIA DEL QUINDIO

El Quindío está localizado en la cordillera central. Tiene una extensión de 1845 km² con montañas, nevados, variados guaduales en sus puntas, ríos y quebradas que hidratan al departamento, y valles

Los nevados se encuentran en los lugares de mayor altura del departamento. Ellos están en el límite con otros departamentos y son: (Ruiz, Quindío, Santa Isabel)

_____

_____

_____

El territorio del departamento del Quindío se distingue dos tipos de relieves, el primero es montañoso en el oriente, los picos y montañas de Quindío más importantes son: (el Páramo del Quindío, a 5.215 m de altura, y el Páramo de Chili a 3.500 metros).

_____

_____

El segundo tipo de relieve es ondulado en el occidente, corresponde al área cubierta de flujos de lodos volcánicos transportados por los ríos, el modelado es suave de colinas bajas. Allí se encuentran los valles de los ríos: (Barragán y el de La Vieja)

_____

_____

Quindío es un departamento muy bien hidratado, pues tiene muchas quebradas y ríos. Los principales ríos del Quindío Son:

_____

_____

Como el río Quindío, que atraviesa todo el departamento dándole así grandes riquezas, como la de nutrir las palmas de cera del valle de Cocora, y haciendo que sea una tierra fértil y verde.

Las partes planas o bajas del departamento son tierras fértiles que están formadas por valles, construidos por los ríos en su recorrido. Los principales valles son: (Cocora, Maravelez).

_____

_____

_____

Debido a las diferentes alturas que tiene la geografía del Quindío, su clima también varía, desde frío de páramo hasta calor moderado de tierras bajas.

ACTIVIDAD GRUPAL

1. Ubique y dibuje en el mapa los nevados, los valles y los ríos más importantes del Quindío.

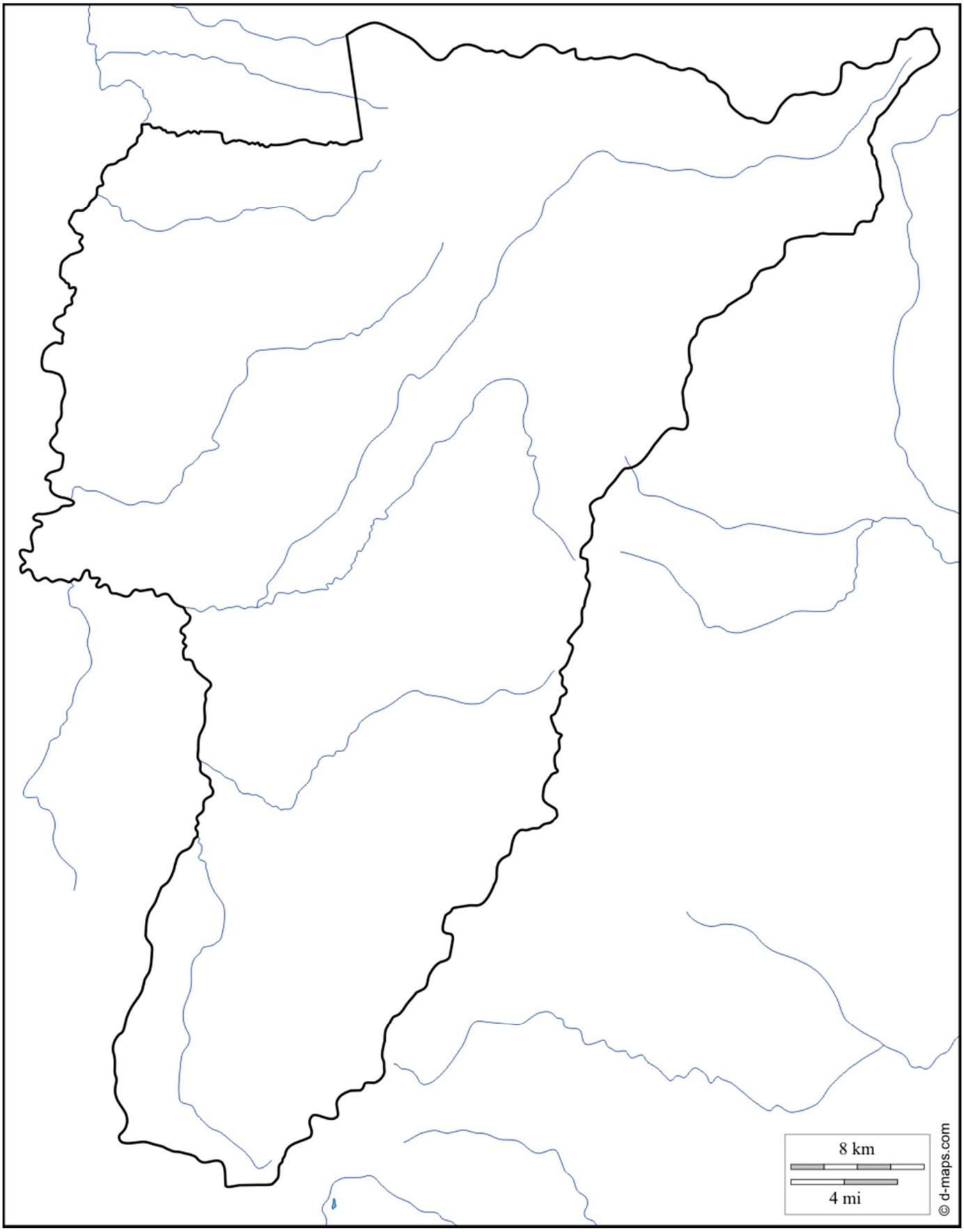

ECONOMIA Y TURISMO DEL DEPARTAMENTO DEL QUINDIO

Hoy en día el Quindío es un departamento joven, moderno y emprendedor, que se caracteriza, no sólo por su exquisito café (producto principal) y por ser la tierra donde vive La Palma de Cera, también por múltiples cultivos como el plátano, el banano y los cítricos, entre otros; por sus excelentes vías, deslumbrantes paisajes y bellas poblaciones que conservan la arquitectura de la colonización antioqueña; por el respeto del medio ambiente y sus políticas de Economía verde (sin industrias contaminantes) donde su belleza natural es ideal para hacer ecoturismo y turismo rural; donde con éxito y gracias a la cultura cafetera, se consolidad en el ámbito nacional e internacional parques temáticos como el Parque Nacional del Café, Panaca y la Arrieria; y ante todo por ser la tierra donde nacen personas cálidas, serviciales y emprendedoras.

En los últimos años, el departamento ha tenido un auge turístico con la oferta de alojamientos rurales y fincas cafeteras, convertidas en hostales y/o pequeños hoteles y la oferta de parque temáticos.

El departamento de Quindío ofrece innumerables atractivos turísticos desde el punto de vista natural, cultural y científico. La cultura cafetera, su arquitectura y la hospitalidad de su gente, hace que recorrer Quindío sea una experiencia inolvidable Entre los sitios turísticos representativos de la región cabe mencionar el museo del oro Quimbaya en Armenia, el parque nacional del café en Montenegro, el museo de fotografía B.C.H., en Calarcá, el museo del canasto cafetero en Filandia, el Parque Temático Agropecuario PANACA Parque Temático y Cultural los Arrieros vía Montenegro-Quimbaya.

Quindío posee escenarios de gran belleza natural como el parque nacional de Los Nevados, las cavernas en Génova, el valle de Cocora, donde se puede observar la palma de cera (árbol nacional), la cascada de Santo Domingo, la reserva forestal de Navarro, además de la hermosa arquitectura de centros urbanos como de Finlandia, Circasia, Armenia y Calarcá, al igual que las fincas cafeteras que presentan hermosos contrastes por la variedad de cultivos y el diseño de las casonas.

Anualmente se celebran el reinado nacional de La Chapolera y la exposición nacional equina en Armenia; el reinado nacional del café en Calarcá, la fiesta de la cosecha en Montenegro, el festival del Jipao y otras fiestas de carácter local. Para atender a los turistas cuenta con hoteles y otras formas de hospedaje en sus diferentes municipios.

Quindío, Risaralda y Caldas son reconocidos nacional e internacionalmente como eje cafetero o triangulo del caféo, simplemente, como la zona cafetera donde se produce el mejor Café de Colombia y del mundo.

ACTIVIDAD INDIVIDUAL

1. Recorte y pegue dibujos de paisajes del Quindío, de los parques, de los pueblos, de la capital u otros atractivos turísticos.

HISTORIA DEL DEPARTAMENTO DEL QUINDIO

El territorio departamental se encontraba habitado a la llegada de los conquistadores españoles Jorge Robledo, Francisco de Creza, Sebastián de Belalcázar y otros, por algunas tribus indígenas, entre los cuales los quimbayas eran los más importantes; eran ellos indios laboriosos y afamados orfebres, como lo demuestran los bellos objetos elaborados en oro que aún se observan. Durante la Colonia el territorio siguió ocupado por indígenas, puesto que los españoles se establecieron al norte, en la población denominada Cartago. Los españoles abandonaron el territorio y se trasladaron al Valle del Cauca debido al acecho de los pijaos que les impedían la comunicación con Santa Fe; el territorio quedó deshabitado durante 200 años, hasta la llegada de los primeros colonos antioqueños, a finales del siglo XIX, determinándose así el comienzo del crecimiento acelerado de la población del Quindío. Fue erigido unidad departamental por medio de la Ley 2 de 1966.

Por su estrategia ubicación hizo parte de la ruta libertadora y en el Siglo XIX la colonización Antioqueña impulso su desarrollo, desde sus inicios giro alrededor del cultivo y producción de Café cuando se forma el llamado Viejo Caldas y otros sectores como el norte del Tolima y del Valle, donde se establecieron varios caseríos que con el paso del tiempo se convirtieron en grandes ciudades, tal fue el caso de Armenia, fundada el 14 de octubre de 1889. En este proceso de colonización se funda la mayoría de los municipios del Quindío.

Los Habitantes del Quindío manifestaron su deseo de unirse al departamento de Caldas desde que este se creó en 1905, objetivo que se logro el 31 de agosto de 1908.

El cultivo del café impulso rápido desarrollo económico y demográfico de la región fueron las razones que rápidamente llevaron a los dirigentes a buscar la creación del Quindío. La gestión liderada por los señores Silvio Ceballos y Ancízar López durante el gobierno del Presidente Guillermo León Valencia resulta con la firma del proyecto el 19 de enero de 1966 y con la institución del Quindío como departamento el 1 de julio de 1966 nombrando como primer gobernador del departamento al parlamentario Ancízar López.

LOS SIMBOLOS DEL DEPARTAMENTO DEL QUINDIO

BANDERA DEL QUINDIO

Tres franjas iguales en su dimensión, colocadas en forma vertical, con los colores verde, amarillo y púrpura. El verde representa el homogéneo colorido de nuestra compacta vegetación encendido en los pastos y guaduales y opaco en las plataneras y cafetos. El amarillo simboliza el oro, representado en las divisas que el Departamento del Quindío aporta a la economía nacional en apreciable volumen. El púrpura expresa la madurez que cubre el grano de café para anunciar su recolección. La Bandera del Departamento del Quindío, fue diseñada por Solita Lozano de Gómez.

ACTIVIDAD INDIVIDUAL:

1. Coloree la bandera del Quindío.

dibujoscolorear.es

ESCUDO DEL QUINDIO

Está compuesto por un círculo doble y dentro de éste el tronco de un árbol con un hacha clavada en la parte superior, rodeado por dos ramas de cafeto maduro entrelazadas en la parte inferior y unidas en la parte superior por una banda que lleva la leyenda "Joven, Rico, Poderoso". La fecha de 1.966 en la parte inferior del tronco y el nombre del Quindío en la parte superior. Fue diseñado por Solita Lozano de Gómez.

ACTIVIDAD INDIVIDUAL:

1. Coloree el escudo del departamento del Quindío y escriba las tres palabras que van en la franja.



ACTIVIDAD GRUPAL:

2. Escriba y cante el himno del Quindío.

HIMNO DEL QUINDIO

Letra: Jorge Robledo Ortiz
Música: Luis Uribe Bueno

CORO

Salve tierra de pioneros
y de arrieros y de sol.
Salve casta del abuelo
que sembró su corazón.

I

Por viejas trochas de caldas
con la orquídea por blasón
Antioquia viajo descalza
y el milagro floreció.

II

Guadales donde mis viejos
vieron crecer su ilusión,
y entre triples y cafetos
nos enseñan a Dios.

III

Bendita tierra quindiana
donde la fe patriarcal
y los reflejos del hacha
nos abrieron la heredad.

Escriba cómo puede usted demostrar respeto por los símbolos de nuestro departamento Quindío



RECUERDA, LA BANDERA, EL ESCUDO Y EL HIMNO DEL QUINDIO SON NUESTROS SIMBOLOS DEPARTAMENTALES, DEBEMOS RESPETARLOS.